ESTAÇÃO FERROVIÁRIA: NOS TRILHOS DA HISTÓRIA

GIRO NA HISTÓRIA

FIGURA 1

Fig.01 - Terminal Urbano
https://maluvisita.com/terminal-urbano/#.YvooGnbMLIU

FIGURA 2



Fig.02 - Rodoviária
https://pt.foursquare.com/v/rodovi%C3%A1ria-de-s%C3%A3o-jos%C3%A9-do-rio-preto/4bf725cebb5176b06a275bb2

ETAPA 1 - COMO VOCÊ VIAJA?

GIRO NA HISTÓRIA

ATIVIDADE 1A

A) Você conhece esses lugares? Já esteve lá? O que acontece por lá?
B) Como você se locomove em Rio Preto? Como vai de um lugar a outro?
C) Já viajou para outras cidades? Como a viagem foi feita?

FIGURA 1

Fig.1 - Estação Ferroviária (Rio Preto)
Arquivo Público Municipal de S. J. do Rio Preto

FIGURA 2



Fig.2 - Parte interna da Estação Ferroviária
http://www.estacoesferroviarias.com.br/s/sjriopreto.htm

GIRO NA HISTÓRIA

ATIVIDADE 1B

A) Você conhece os locais acima? Sabem onde ficam?
B) Na sua opinião o que era feito nesse local?
C) A imagem 05, abaixo, mostra uma vista aérea da antiga Estação Ferroviária, rodeada pelas duas rodoviárias de Rio Preto. Você já tinha visto as duas rodoviárias de cima? Já sabia que existe uma Estação Ferroviária no meio delas?

FIGURA 3

Fig.3 - Vista aérea das duas rodoviárias e da Estação Ferroviária Araraquarense

Google Earth

GIRO NA HISTÓRIA

PREFEITURA MUNICIPAL
SÃO JOSÉ DO RIO PRETO

FIGURA 1

Fig.1 - Carregamento de produtos agrícolas na Estação Ferroviária nos anos 1920
Arquivo Público Municipal de S. J. do Rio Preto

FIGURA 2

Fig.2 - Trem de passageiros que passava por Rio Preto
Arquivo Público Municipal de S. J. do Rio Preto

FIGURA 3

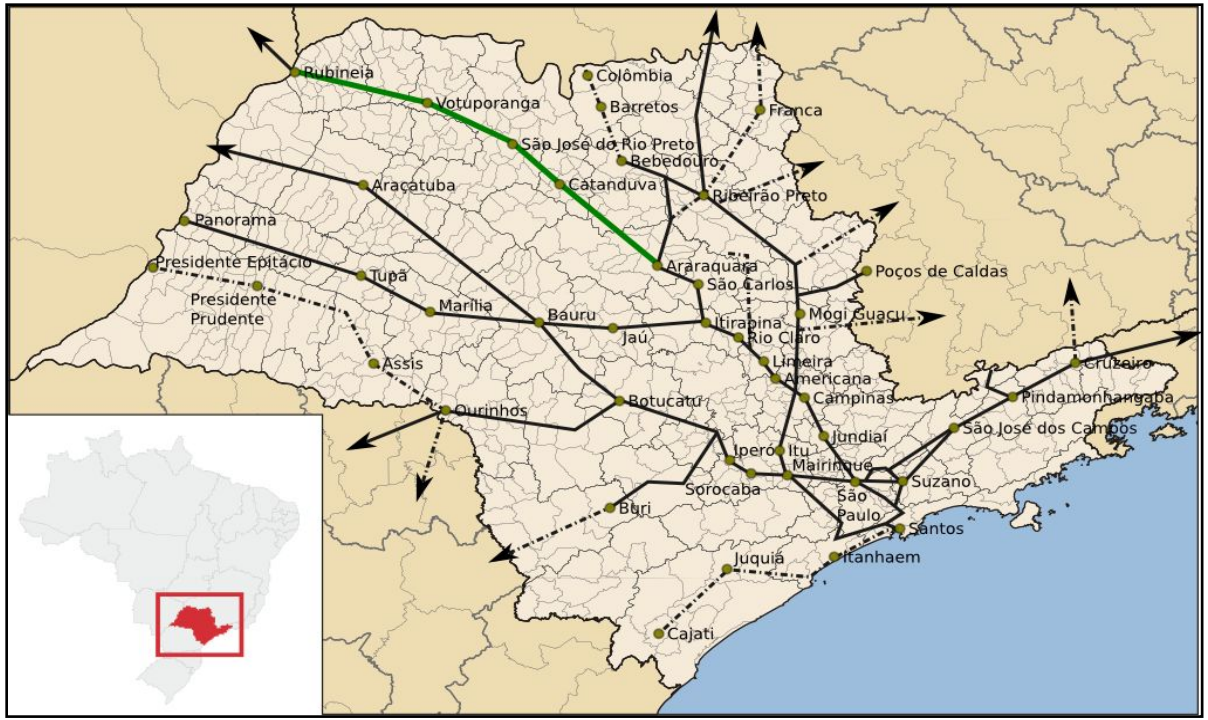

Fig.3 - Mapa do estado de São Paulo e sua malha ferroviária.
Estrada de Ferro Araraquarense atualmente
https://pt.wikipedia.org/wiki/Linha_Tronco_(Estrada_de_Ferro_Araraquara)#/media/Ficheiro:Mapa_Ferrovia_Araraquara.png

PREFEITURA MUNICIPAL
SÃO JOSÉ DO RIO PRETO

FIGURA 1



Fig.1 - Estação Ferroviária em Rio Preto, anos 1920.
Arquivo Público Municipal de S. J. do Rio Preto

FIGURA 2

Fig.2 - Estação Ferroviária em Rio Preto, anos 1940.
Autoria: Antonio Aguilar. Arquivo Público Municipal de S. J. do Rio Preto.

GIRO NA HISTÓRIA

ATIVIDADE 2B

A) Descreva o que você vê na figura 1.
B) Descreva o que você vê na figura 2.
C) Quais são as diferenças entre as duas imagens? Na sua opinião, por que houve uma grande reforma na Estação Ferroviária?

GIRO NA HISTÓRIA

FIGURA 1

Fig.1 - Prefeitura de Los Angeles (EUA). 1928https://pt.wikipedia.org/wiki/Art_d%C3%A9co#/media/Ficheiro:Los_Angeles_City_Hall_(color)_edit2.jpg

FIGURA 2

Fig.2 - Estação Ferroviária em Rio Preto. Arquivo Público Municipal de S. J. do Rio Preto

PREFEITURA MUNICIPAL
SÃO JOSÉ DO RIO PRETO

GIRO NA HISTÓRIA

ATIVIDADE 2C

A) Quais são as semelhanças entre os dois locais?

PREFEITURA MUNICIPAL
SÃO JOSÉ DO RIO PRETO

FIGURA 1

Fig.3 - Estação Ferroviária Goiânia(GO)
https://pt.m.wikipedia.org/wiki/Ficheiro:Esta%C3%A7%C3%A3o_de_trens.JPG

FIGURA 2

Fig.4 - Arranha-céus em Nova York
https://portal.loft.com.br/art-deco/

FIGURA 3

Fig.5 - Estádio Pacaembu (SP)
https://www.todamateria.com.br/art-deco

GIRO NA HISTÓRIA

ATIVIDADE 2C

A) Você acha que a nossa Estação Ferroviária se parece com algum desses exemplos? Comente.

FIGURA 1

Fig.1 - Vagão de Trem *Expresso Azul* que passava por Rio Preto (anos 1970/1980)
Arquivo Público Municipal de S. J. do Rio Preto

FIGURA 2

Fig.2 - Vagão de Trem *Expresso Azul* que passava por Rio Preto (anos 1970/1980)
Arquivo Público Municipal de S. J. do Rio Preto

ATIVIDADE 2D

A) Descreva o que você vê nas duas imagens.

ttps://www.cnt.org.br/agencia-cnt/transporte-rodoviario-tenta-se-manter-firme-apesar-das-dificuldades

http://www.coppenario20.coppe.ufrj.br/?p=2177

https://tribunademinas.com.br/noticias/cidade/14-11-2021/pjf-avalia-adocao-de-sistema-troncalizado-para-onibus-urbano.html

GIRO NA HISTÓRIA

https://www.amazonamazonia.com.br/2019/12/18/canoa-o-equipamento-de-mil-e-uma-utilidades-entre-povos-ribeirinhos-da-amazonia/

https://www.todoestudo.com.br/geografia/transporte-aereo

https://connectamericas.com/pt/content/gloss%C3%A1rio-de-termos-relacionados-ao-transporte-mar%C3%ADtimo-de-mercadoria

https://g1.globo.com/df/distrito-federal/noticia/2019/05/22/gdf-incentiva-uso-de-bicicletas-como-meio-de-transporte-para-servidores.ghtm

https://www.msnoticias.com.br/editorias/noticias-campo-grande-ms/mudanca-na-lei-que-proibe-transporte-de-carrocas-agrada-categoria-mas/20689

GIRO NA HISTÓRIA

ETAPA 4 - MEIOS DE TRANSPORTE, ENERGIA E MEIO AMBIENTE

ATIVIDADE 4A

A) Você já utilizou algum desses meios de transporte? Quais?
B) Dos transportes acima, quais são terrestres, aquáticos ou aéreos?
C) Quais desses meios de transporte são os mais acessíveis à maioria da população? Quais são os menos acessíveis? Por que?
D) Na sua opinião, que tipo de energia é utilizada para movimentar os meios de transporte acima? E os trens, como se locomovem?
E) Na sua opinião, qual deles não polui o meio ambiente? Por que?